Name: Datum:

Zahlenstrahl bis 100

Zahlen finden, Nachbarn kennen, springen

1 Welche Zahl zeigt der Pfeil? Schreibe sie in das Kästchen.

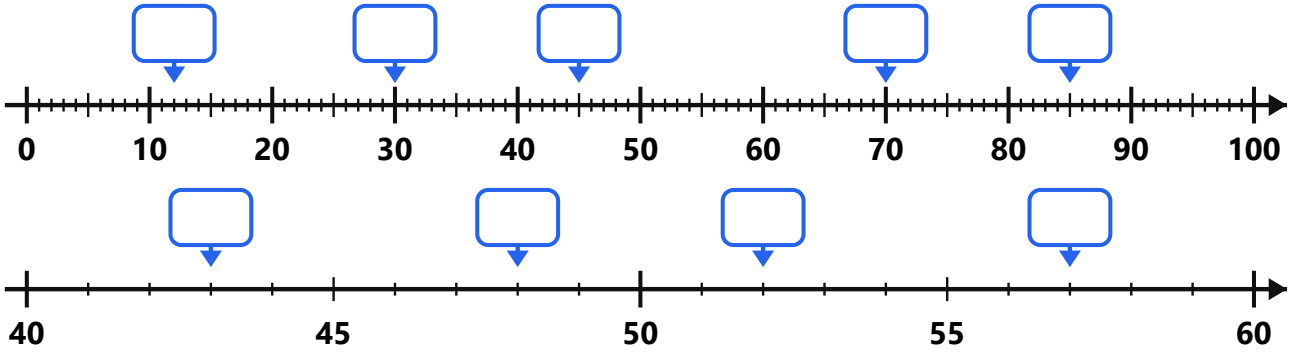

2 Schreibe die **Nachbarzahlen** und die **Nachbarzehner** dazu.

☐ 47 ☐	☐ 30 ☐	☐ 69 ☐
☐ 81 ☐	☐ 99 ☐	☐ 14 ☐

☐ < 63 < ☐ ☐ < 28 < ☐ ☐ < 91 < ☐ ☐ < 45 < ☐

3 Der Frosch springt. Wo landet er? Rechne.

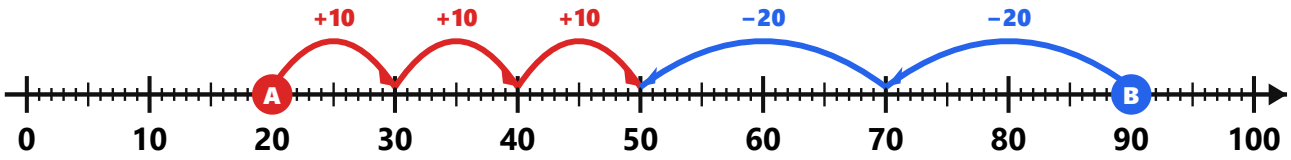

A 20 + 10 + 10 + 10 = _____ **B** 90 − 20 − 20 = _____

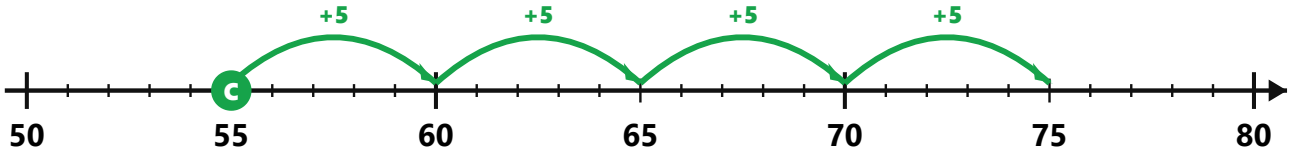

C 55 + 5 + 5 + 5 + 5 = _____

Jetzt du: Starte bei 35. Male **4 Sprünge** mit **+ 10** farbig ein. Wo landest du? _____

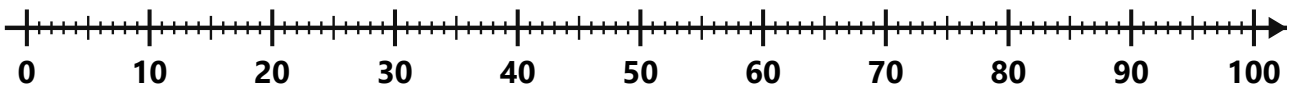

Kopieren für den eigenen Unterricht erlaubt

Zahlenstrahl bis 100 – Lösung

Aufgabe 1

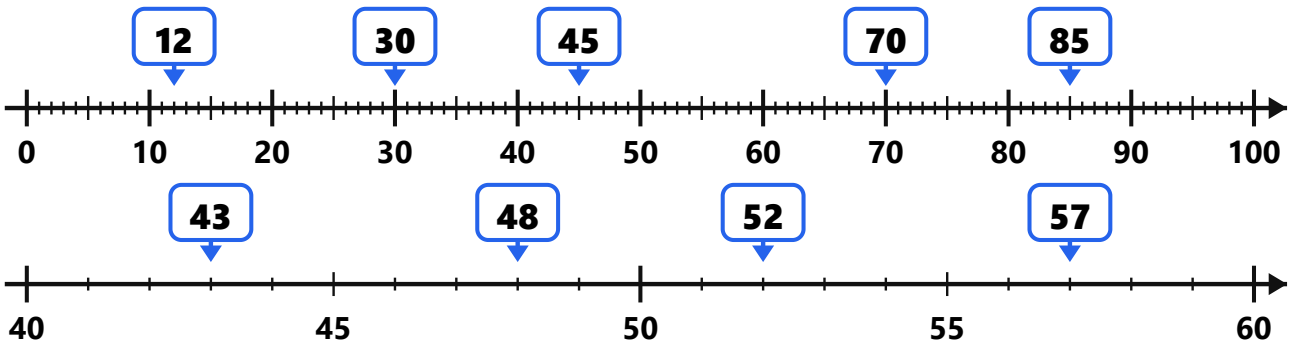

Aufgabe 2

46 47 48	29 30 31	68 69 70
80 81 82	98 99 100	13 14 15

60 < 63 < 70 | 20 < 28 < 30 | 90 < 91 < 100 | 40 < 45 < 50

Aufgabe 3

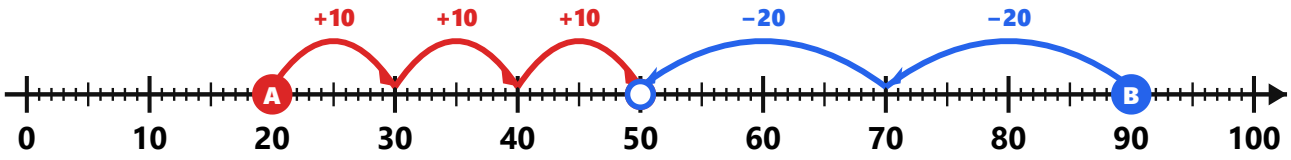

A 20 + 10 + 10 + 10 = **50** **B** 90 − 20 − 20 = **50**

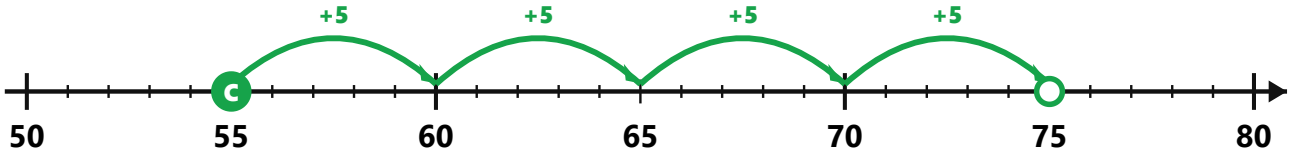

C 55 + 5 + 5 + 5 + 5 = **75**

Jetzt du: 35 → 45 → 55 → 65 → **75**

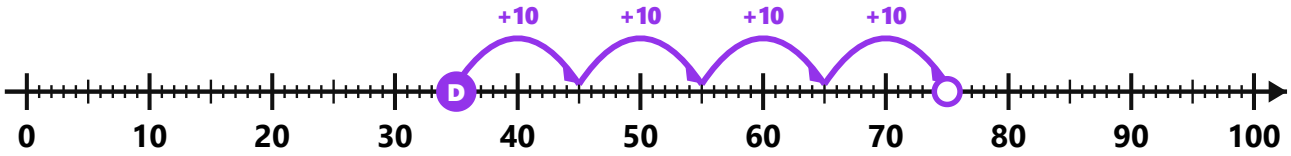

Der zweite Strahl in Aufgabe 1 zeigt nur 40 bis 60: Hier lohnt es sich, vom nächsten Fünfer aus zu zählen. Die Sprünge A und B landen beide auf 50: guter Gesprächsanlass.

Kopieren für den eigenen Unterricht erlaubt