Name: Datum:

Kontinente an der Form erkennen

Umrisse, Flächen und Ozeane

1 Welcher Kontinent hat diese Form? Schreibe den Namen darunter. Achtung: Ein Bild zeigt zwei Kontinente, die zusammenhängen. (Die Umrisse sind nicht im gleichen Maßstab.)

A



B



C



D

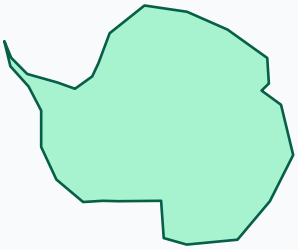

E



F



2 Die Säulen zeigen die Fläche der sieben Kontinente (gerundet). Schreibe den passenden Kontinent unter jede Säule.

Afrika · Antarktika · Asien · Australien · Europa · Nordamerika · Südamerika

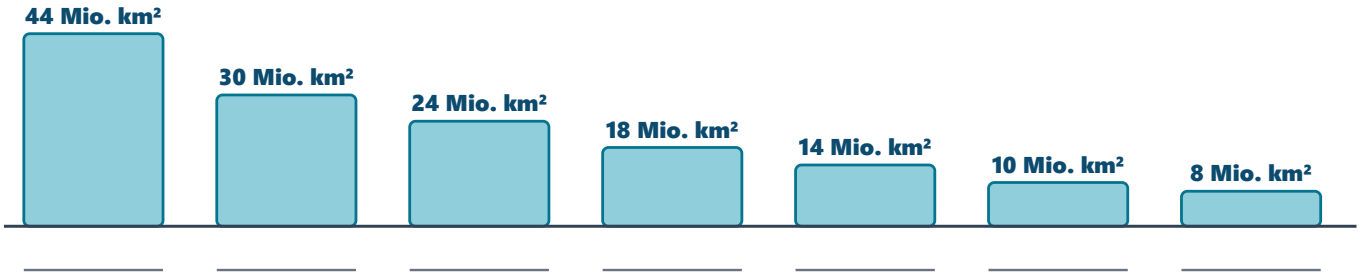

3 Ergänze die drei großen Ozeane.

Atlantische Ozean · Indische Ozean · Pazifische Ozean

Zwischen Amerika im Westen und Europa und Afrika im Osten liegt der _____.

Zwischen Afrika, Asien und Australien liegt der _____.

Der größte Ozean liegt zwischen Asien, Australien und Amerika. Es ist der _____.

Kopieren für den eigenen Unterricht erlaubt

Kontinente an der Form erkennen – Lösung

A



Afrika

B



Europa und Asien

C



Australien

D

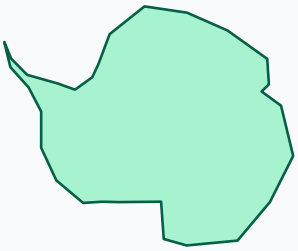

Antarktika

E



Nordamerika

F



Südamerika

Aufgabe 2

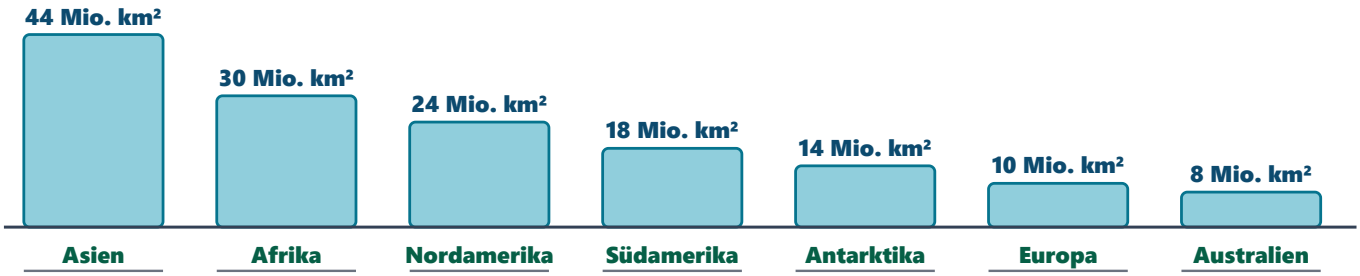

Aufgabe 3

Zwischen Amerika im Westen und Europa und Afrika im Osten liegt der **Atlantische Ozean**.

Zwischen Afrika, Asien und Australien liegt der **Indische Ozean**.

Der größte Ozean liegt zwischen Asien, Australien und Amerika. Es ist der **Pazifische Ozean**.

Bild B zeigt die zusammenhängende Landmasse Eurasien: Europa und Asien; die Grenze verläuft meist entlang Ural, Uralfluss, Kaspischem Meer und Kaukasus. Antarktika ist vom Südpol aus gesehen dargestellt. Zu Bild E gehört auch Grönland (geografisch Nordamerika). Flächen gerundet: Asien rund 44, Afrika 30, Nordamerika 24, Südamerika 18, Antarktika 14, Europa 10, Australien 8 Mio. km².

Kopieren für den eigenen Unterricht erlaubt