Name: Datum:

# Mengen-Domino bis 10

Mengen erkennen und Zahlen zuordnen

**1** **Mengen-Domino:** Beginne bei **START**. Zähle rechts die Menge. Suche die Karte, auf der links diese Zahl steht. Dort geht es weiter. Schreibe die Buchstaben der Reihe nach auf. Du kannst die Karten auch ausschneiden und legen.

| | | | |
|---|---|---|---|
| 2 |  | T | |
| 4 |  | P | |
| 8 |  | O | |
| 5 |  | E | |
| 9 |  | M | |
| 7 |  | L | |
| 1 |  | U | |
| 10 |  | N | |
| START 3 |  | B | |
| 6 |  | F | |

**Lösungswort:** 1 2 3 4 5 6 7 8 9 10

**2** Zehnerfreunde: Wie viele Punkte fehlen bis 10? Schreibe die Zahl ins Kästchen.

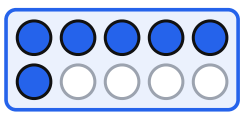
Es fehlen ☐

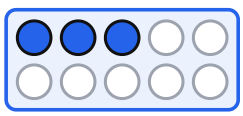
Es fehlen ☐


Es fehlen ☐

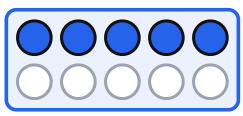
Es fehlen ☐

Kopieren für den eigenen Unterricht erlaubt

# Mengen-Domino bis 10 – Lösung

## Aufgabe 1: die richtige Reihenfolge

START

| | | | |
|---|---|---|---|
| 3 |  | 1 | B |
| 7 |  | 2 | L |
| 1 |  | 3 | U |
| 9 |  | 4 | M |
| 5 |  | 5 | E |
| 10 |  | 6 | N |
| 2 | 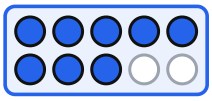 | 7 | T |
| 8 |  | 8 | O |
| 4 |  | 9 | P |
| 6 |  | 10 | F |

**Lösungswort:**

| 1 | 2 | 3 | 4 | 5 | 6 | 7 | 8 | 9 | 10 |
|---|---|---|---|---|---|---|---|---|---|
| B | L | U | M | E | N | T | O | P | F |

Kette: 3 → 7 → 1 → 9 → 5 → 10 → 2 → 8 → 4 → 6 → zurück zu START. Die Mengen sind bewusst verschieden dargestellt: Würfelbild, Strichliste, Zehnerfeld und Äpfel in Fünferreihen. Die 10 ist ein Doppel-Würfel 5 + 5.

## Aufgabe 2

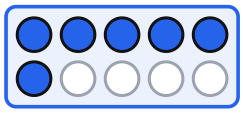

Es fehlen **4**

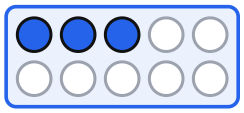

Es fehlen **7**

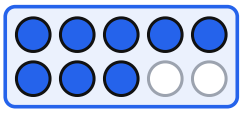

Es fehlen **2**

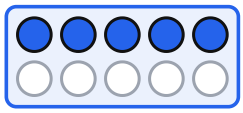

Es fehlen **5**

Kopieren für den eigenen Unterricht erlaubt