Name: Datum:

Mias Tag in Uhren

Volle und halbe Stunden, Tagesablauf ordnen

1 Wie spät ist es? Schreibe die Uhrzeit unter jede Uhr, zum Beispiel „7 Uhr“ oder „halb 8“.

Mittagessen



_____ U

Abendessen



_____ A

Mia steht auf.



_____ S

Fußballtraining



_____ T

Die Schule beginnt.



_____ C

Mia geht ins Bett.



_____ G

Hausaufgaben



_____ L

Hofpause



_____ H

2 Was macht Mia zuerst, was danach? Schreibe 1 bis 8 in die Kreise. Schreibe dann die Buchstaben der Reihe nach auf.

Lösungswort: 1 2 3 4 5 6 7 8

3 Zeichne die Zeiger ein. Der kurze Zeiger zeigt die Stunde, der lange die Minuten.



halb 3



11 Uhr



halb 7



4 Uhr

Kopieren für den eigenen Unterricht erlaubt

Mias Tag in Uhren – Lösung

Mia steht auf.



7 Uhr

(7:00 Uhr)

1 — S

Die Schule beginnt.



8 Uhr

(8:00 Uhr)

2 — C

Hofpause



halb 10

(9:30 Uhr)

3 — H

Mittagessen



halb 1

(12:30 Uhr)

4 — U

Hausaufgaben



2 Uhr

(14:00 Uhr)

5 — L

Fußballtraining



halb 5

(16:30 Uhr)

6 — T

Abendessen



6 Uhr

(18:00 Uhr)

7 — A

Mia geht ins Bett.



halb 8

(19:30 Uhr)

8 — G

Lösungswort:

1	2	3	4	5	6	7	8
S	C	H	U	L	T	A	G

Uhren zeigen nur 12 Stunden: 2 Uhr nachmittags heißt auch 14 Uhr, 6 Uhr abends auch 18 Uhr. Die Reihenfolge ergibt sich aus dem Tagesablauf. „Halb 8“ bedeutet 30 Minuten vor 8 Uhr (7:30 Uhr).

Aufgabe 3



halb 3



11 Uhr



halb 7



4 Uhr

Bei „halb“ steht der kurze Zeiger zwischen zwei Zahlen, der lange Zeiger zeigt auf die 6.

Kopieren für den eigenen Unterricht erlaubt